Cálculo I -A-

Humberto José Bortolossi

Departamento de Matemática Aplicada

Universidade Federal Fluminense

Parte 18

Versão 0.9

As funções hiperbólicas

Definições e identidades

$\cosh(x) =$ $\qquad$ $\operatorname{senh}(x) =$ $\qquad$ $\operatorname{tgh}(x) =$

$\operatorname{sech}(x) =$ $\qquad$ $\operatorname{cossech}(x) =$ $\qquad$ $\operatorname{cotgh}(x) =$

Definições e identidades

$$\cosh(x) = \frac{e^x + e^{-x}}{2} \qquad \operatorname{senh}(x) = \qquad \operatorname{tgh}(x) =$$

$$\operatorname{sech}(x) = \qquad \operatorname{cossech}(x) = \qquad \operatorname{cotgh}(x) =$$

Definições e identidades

$$\cosh(x) = \frac{e^x + e^{-x}}{2}, \qquad \operatorname{senh}(x) = \frac{e^x - e^{-x}}{2} \qquad \operatorname{tgh}(x) =$$

$$\operatorname{sech}(x) = \qquad \operatorname{cossech}(x) = \qquad \operatorname{cotgh}(x) =$$

Definições e identidades

$$\cosh(x) = \frac{e^x + e^{-x}}{2}, \qquad \operatorname{senh}(x) = \frac{e^x - e^{-x}}{2}, \qquad \operatorname{tgh}(x) = \frac{\operatorname{senh}(x)}{\cosh(x)}$$

$$\operatorname{sech}(x) = \qquad \operatorname{cossech}(x) = \qquad \operatorname{cotgh}(x) =$$

Definições e identidades

$$\cosh(x) = \frac{e^x + e^{-x}}{2}, \qquad \operatorname{senh}(x) = \frac{e^x - e^{-x}}{2}, \qquad \operatorname{tgh}(x) = \frac{\operatorname{senh}(x)}{\cosh(x)},$$

$$\operatorname{sech}(x) = \frac{1}{\cosh(x)} \qquad \operatorname{cossech}(x) = \qquad \operatorname{cotgh}(x) =$$

Definições e identidades

$$\cosh(x) = \frac{e^x + e^{-x}}{2}, \qquad \operatorname{senh}(x) = \frac{e^x - e^{-x}}{2}, \qquad \operatorname{tgh}(x) = \frac{\operatorname{senh}(x)}{\cosh(x)},$$

$$\operatorname{sech}(x) = \frac{1}{\cosh(x)}, \qquad \operatorname{cossech}(x) = \frac{1}{\operatorname{senh}(x)} \qquad \operatorname{cotgh}(x) =$$

Definições e identidades

$$\cosh(x) = \frac{e^x + e^{-x}}{2}, \qquad \operatorname{senh}(x) = \frac{e^x - e^{-x}}{2}, \qquad \operatorname{tgh}(x) = \frac{\operatorname{senh}(x)}{\cosh(x)},$$

$$\operatorname{sech}(x) = \frac{1}{\cosh(x)}, \qquad \operatorname{cossech}(x) = \frac{1}{\operatorname{senh}(x)}, \qquad \operatorname{cotgh}(x) = \frac{\cosh(x)}{\operatorname{senh}(x)}$$

Definições e identidades

$$\cosh(x) = \frac{e^x + e^{-x}}{2}, \qquad \operatorname{senh}(x) = \frac{e^x - e^{-x}}{2}, \qquad \operatorname{tgh}(x) = \frac{\operatorname{senh}(x)}{\cosh(x)},$$

$$\operatorname{sech}(x) = \frac{1}{\cosh(x)}, \qquad \operatorname{cossech}(x) = \frac{1}{\operatorname{senh}(x)}, \qquad \operatorname{cotgh}(x) = \frac{\cosh(x)}{\operatorname{senh}(x)},$$

$$\cosh^2(x) - \operatorname{senh}^2(x) =$$

Definições e identidades

$$\cosh(x) = \frac{e^x + e^{-x}}{2}, \qquad \operatorname{senh}(x) = \frac{e^x - e^{-x}}{2}, \qquad \operatorname{tgh}(x) = \frac{\operatorname{senh}(x)}{\cosh(x)},$$

$$\operatorname{sech}(x) = \frac{1}{\cosh(x)}, \qquad \operatorname{cossech}(x) = \frac{1}{\operatorname{senh}(x)}, \qquad \operatorname{cotgh}(x) = \frac{\cosh(x)}{\operatorname{senh}(x)},$$

$$\cosh^2(x) - \operatorname{senh}^2(x) = 1 \qquad \text{e} \qquad 1 - \operatorname{tgh}^2(x) = \operatorname{sech}^2(x).$$

A função cosseno hiperbólico

Se $y = f(x) = \cosh(x) = \dfrac{e^x + e^{-x}}{2}$, então $f'(x) =$

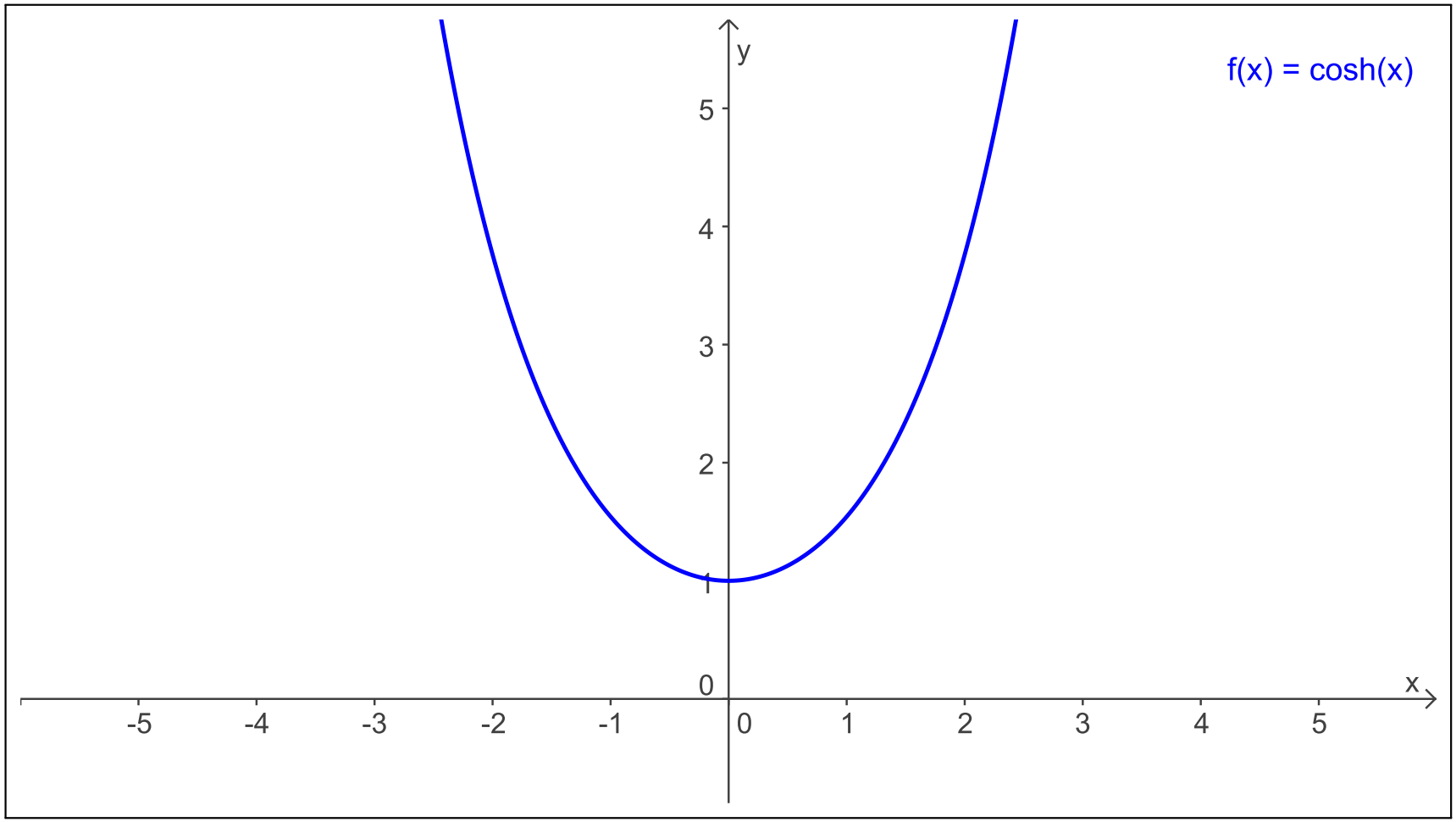

A função cosseno hiperbólico

Se $y = f(x) = \cosh(x) = \dfrac{e^x + e^{-x}}{2}$, então $f'(x) = \dfrac{e^x - e^{-x}}{2}$

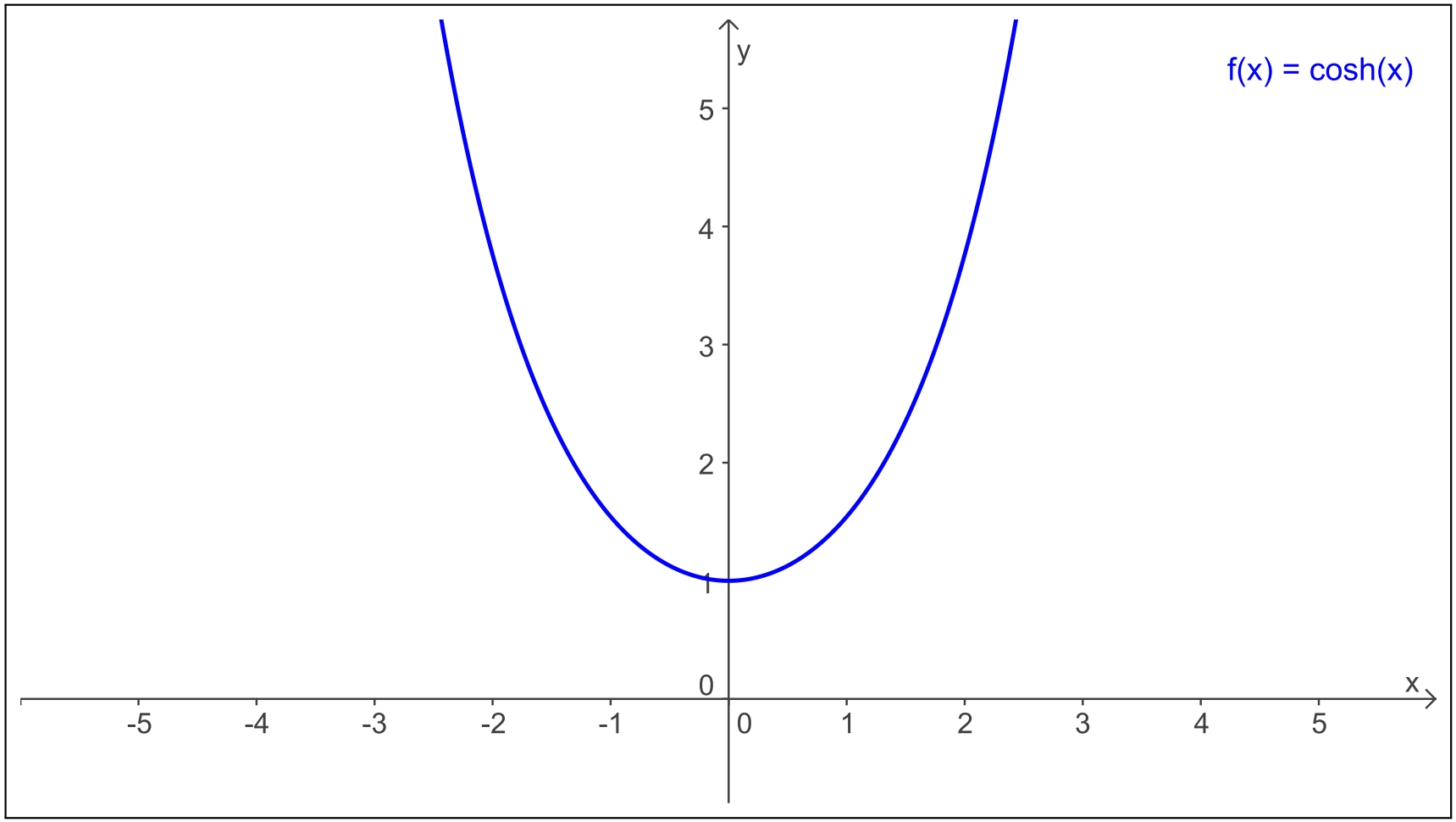

A função cosseno hiperbólico

Se $y = f(x) = \cosh(x) = \dfrac{e^x + e^{-x}}{2}$, então $f'(x) = \dfrac{e^x - e^{-x}}{2} = \operatorname{senh}(x)$.

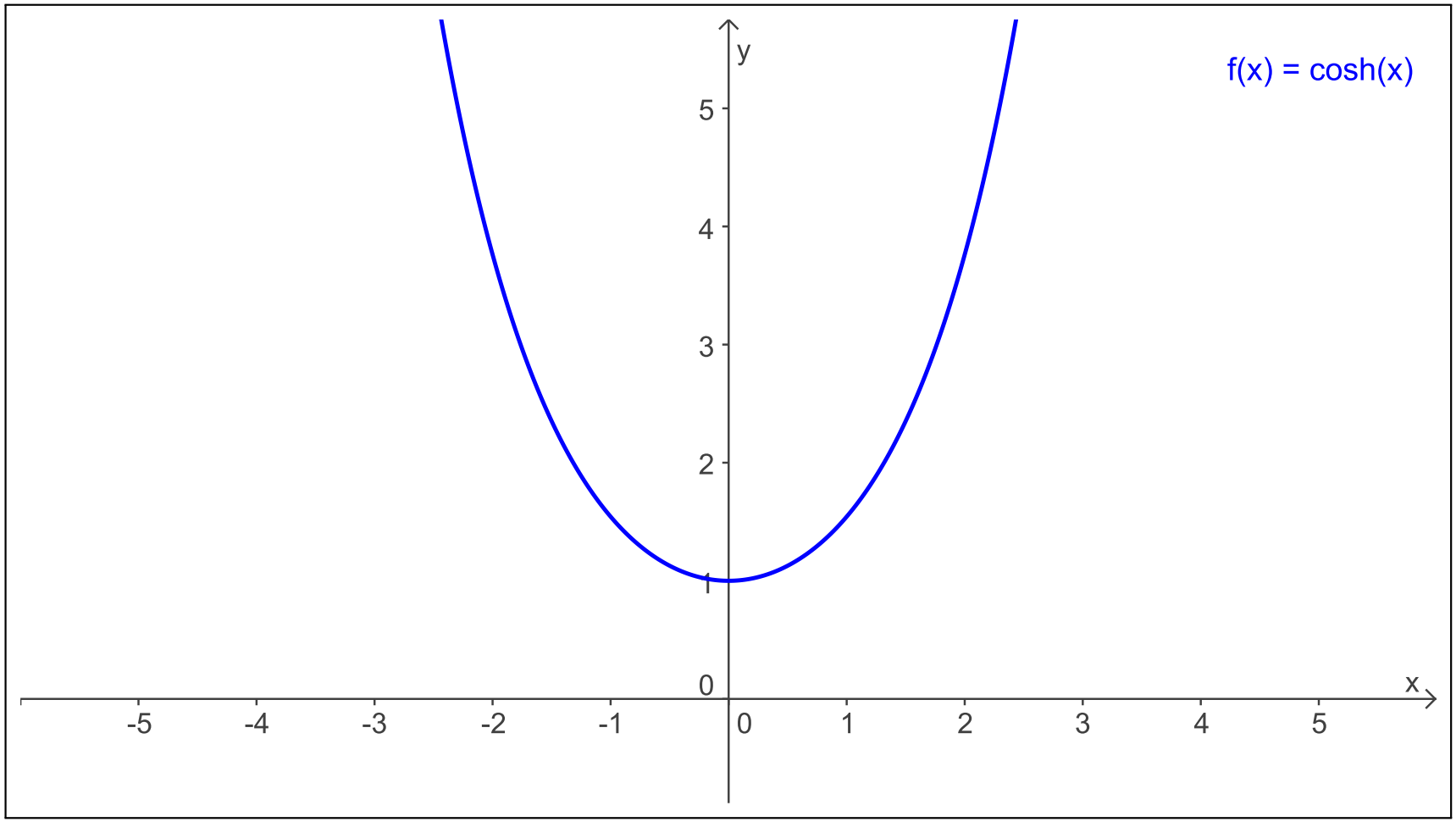

A catenária

A catenária

A catenária

A função seno hiperbólico

Se $y = f(x) = \text{senh}(x) = \dfrac{e^x - e^{-x}}{2}$, então $f'(x) = \cosh(x) = \dfrac{e^x + e^{-x}}{2}$.

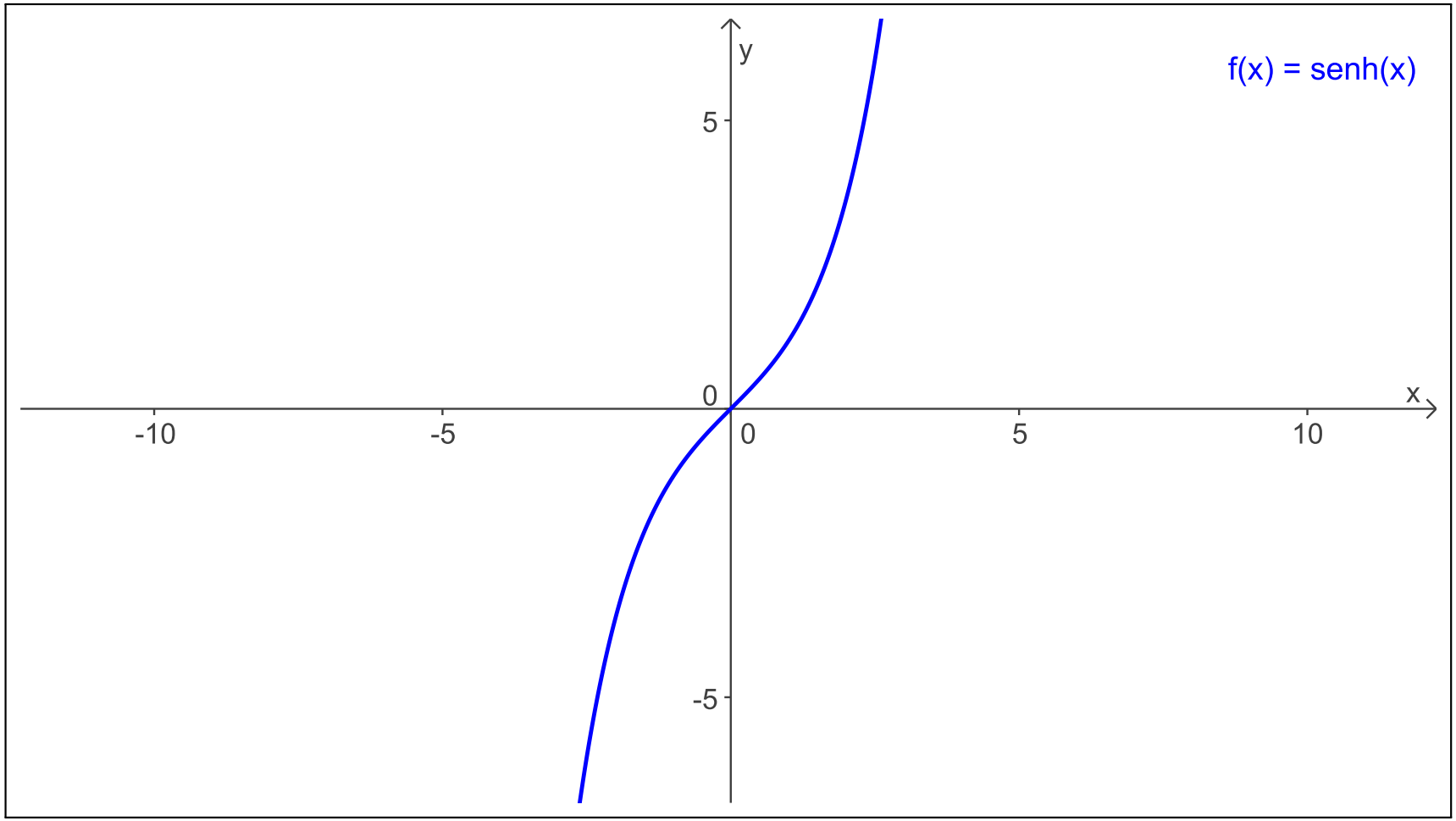

A função tangente hiperbólica

Se $y = f(x) = \text{tgh}(x) = \dfrac{\text{senh}(x)}{\cosh(x)}$, então $f'(x) = \text{sech}^2(x) = \dfrac{1}{\cosh^2(x)}$.

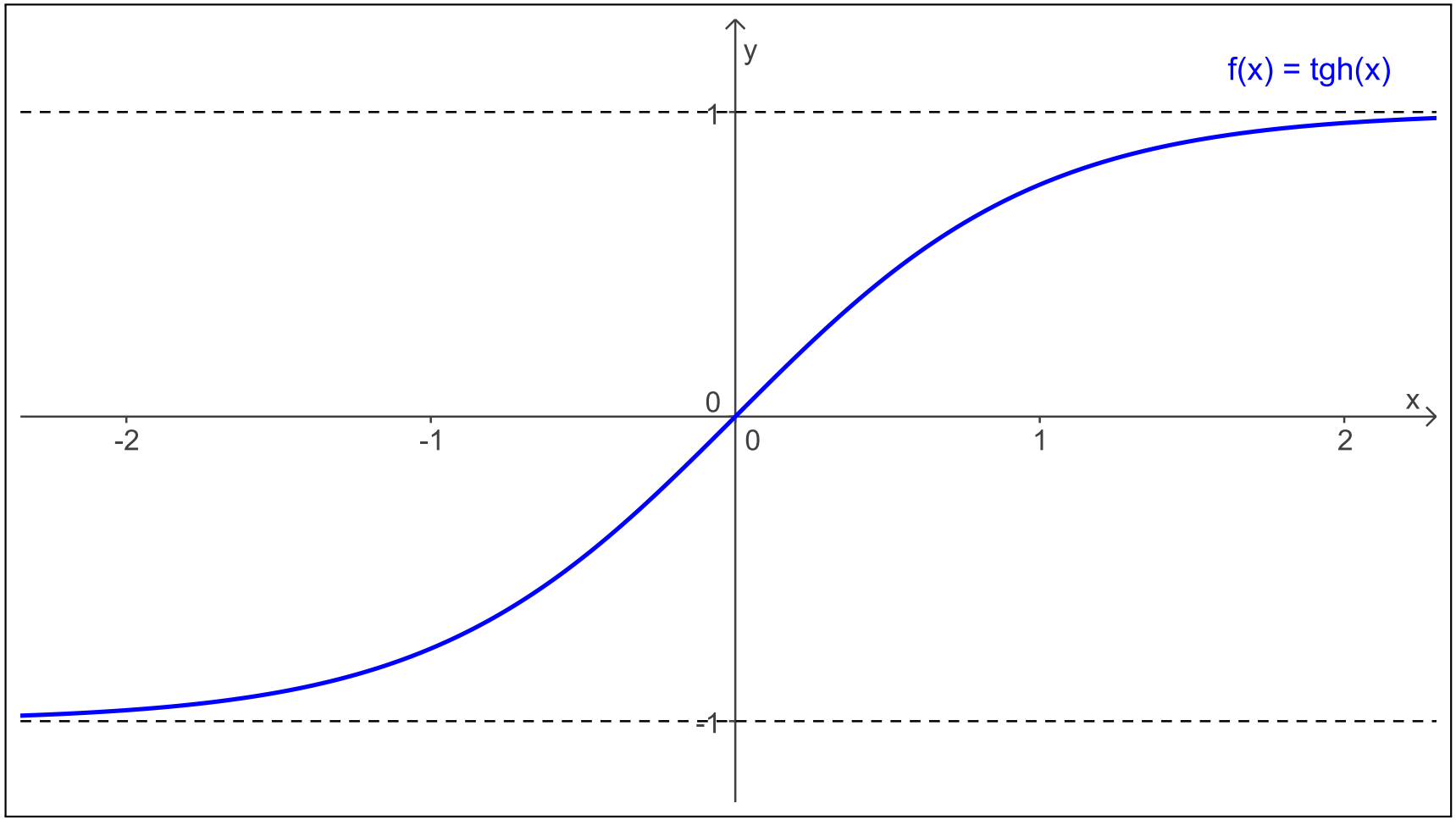

A função secante hiperbólica

Se $y = f(x) = \operatorname{sech}(x)$, então $f'(x) = -\operatorname{sech}(x)\operatorname{tgh}(x)$.

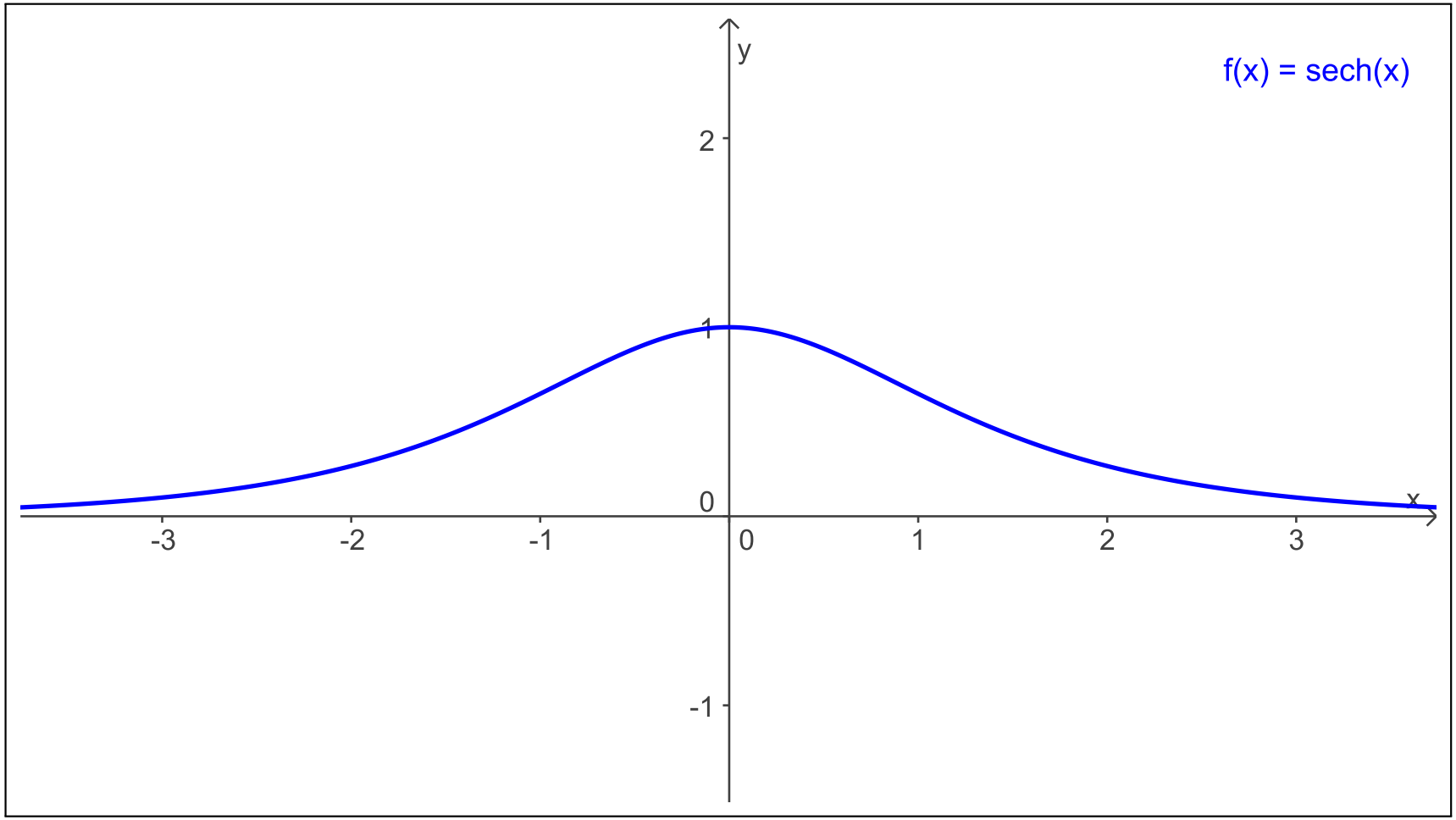

Derivadas das funções hiperbólicas

Função	Derivada
$y = \cosh(u)$	$\dfrac{dy}{dx} = \operatorname{senh}(u) \cdot \dfrac{du}{dx}$
$y = \operatorname{senh}(u)$	$\dfrac{dy}{dx} = \cosh(u) \cdot \dfrac{du}{dx}$
$y = \operatorname{tgh}(u)$	$\dfrac{dy}{dx} = \operatorname{sech}^2(u) \cdot \dfrac{du}{dx}$
$y = \operatorname{sech}(u)$	$\dfrac{dy}{dx} = -\operatorname{sech}(u) \cdot \operatorname{tgh}(u) \cdot \dfrac{du}{dx}$
$y = \operatorname{cossech}(u)$	$\dfrac{dy}{dx} = -\operatorname{cossech}(u) \cdot \operatorname{cotgh}(u) \cdot \dfrac{du}{dx}$
$y = \operatorname{cotgh}(u)$	$\dfrac{dy}{dx} = -\operatorname{cossech}^2(u) \cdot \dfrac{du}{dx}$

Bicicletas com rodas quadradas



Bicicletas com rodas quadradas

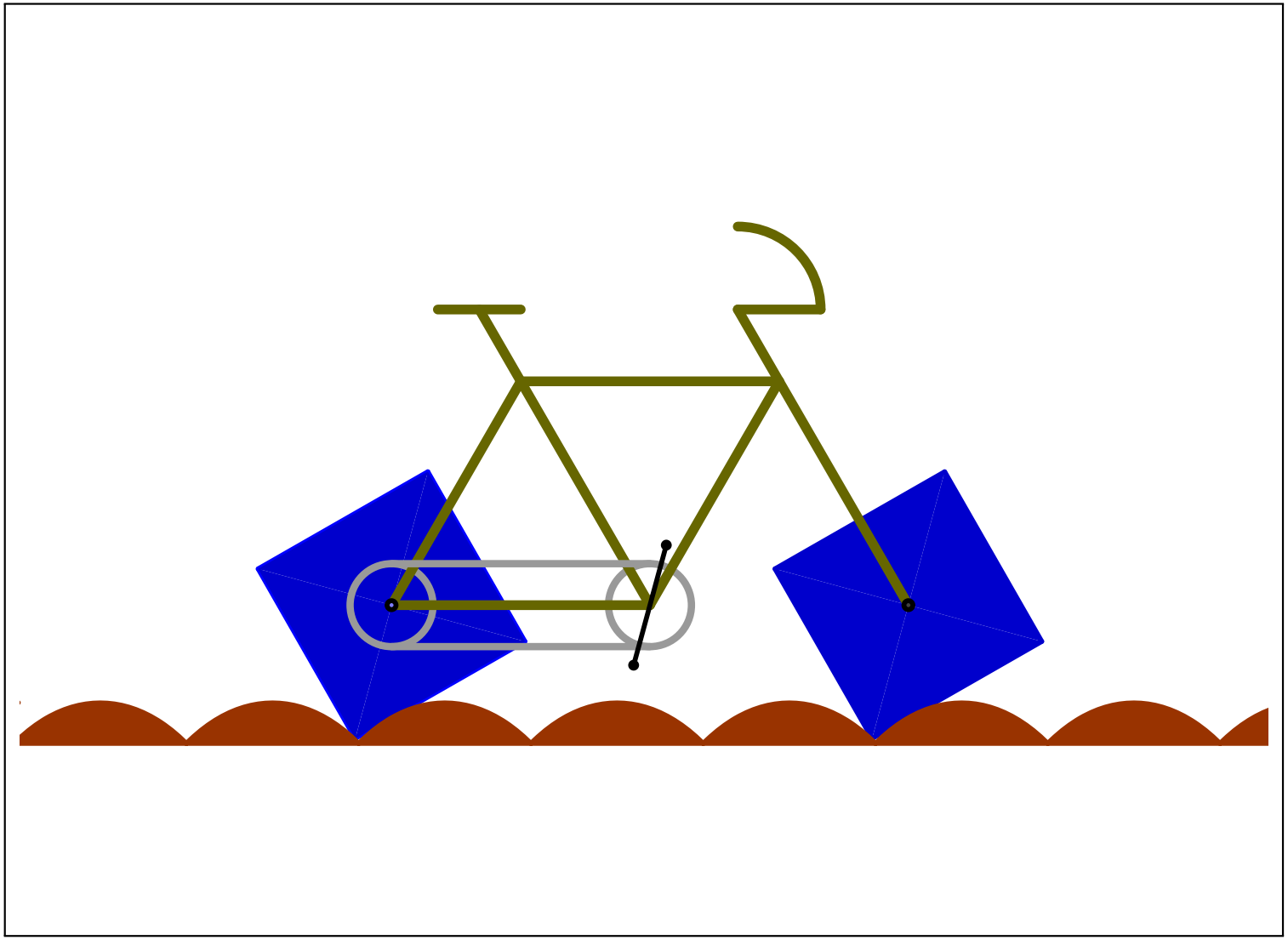

Bicicletas com rodas quadradas

Derivadas, funções crescentes e decrescentes

Exemplo

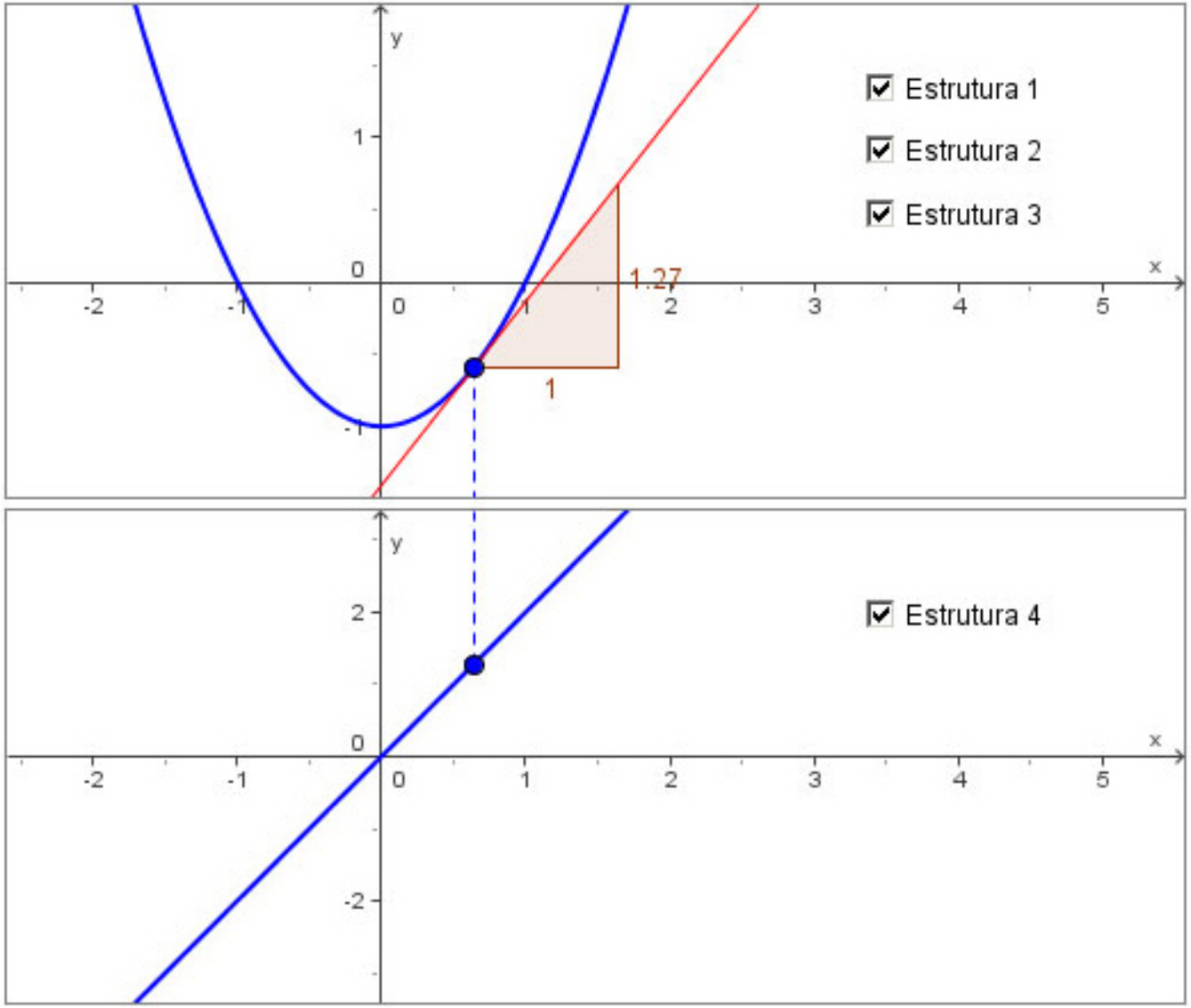

Exemplo

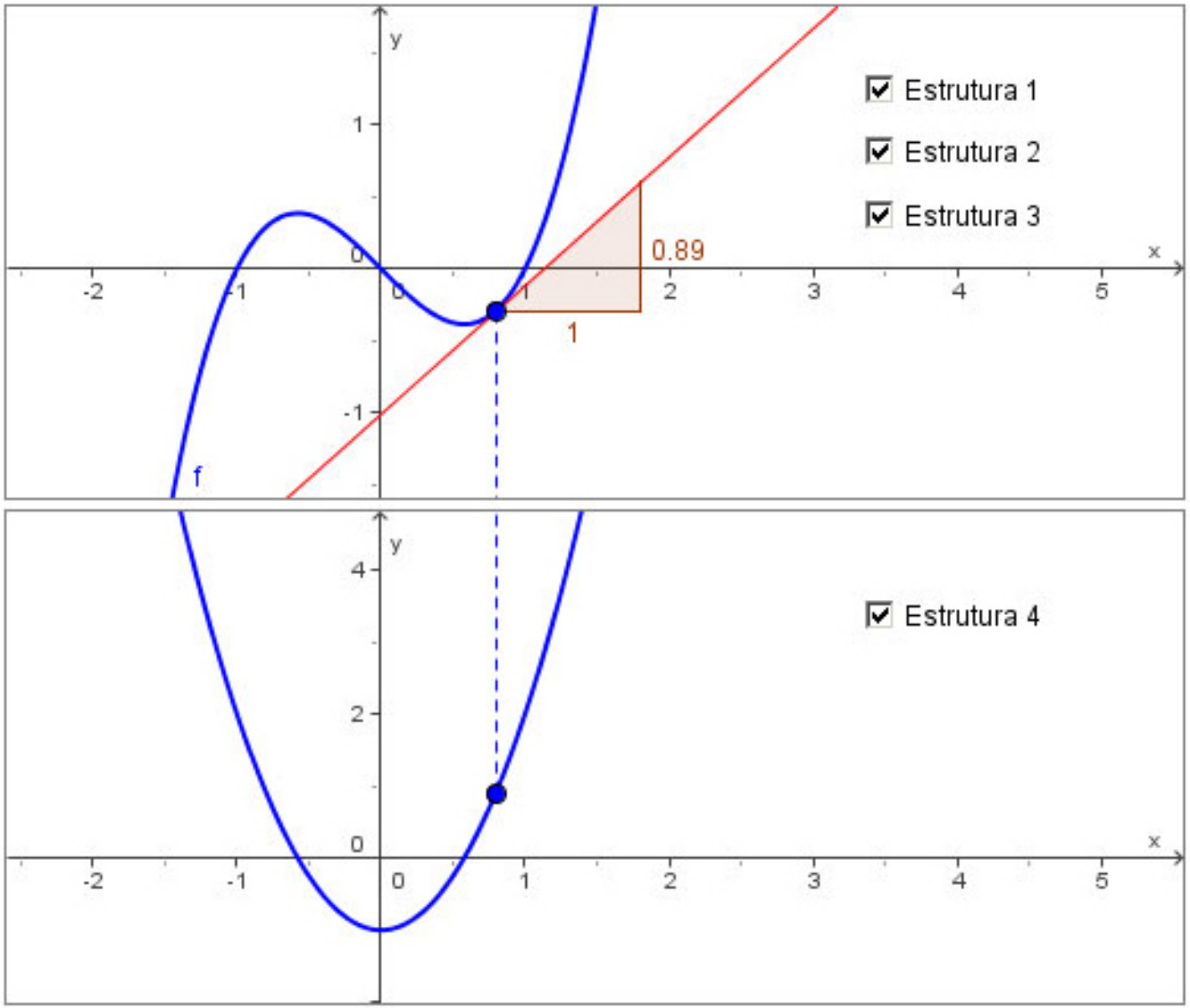

Exemplo

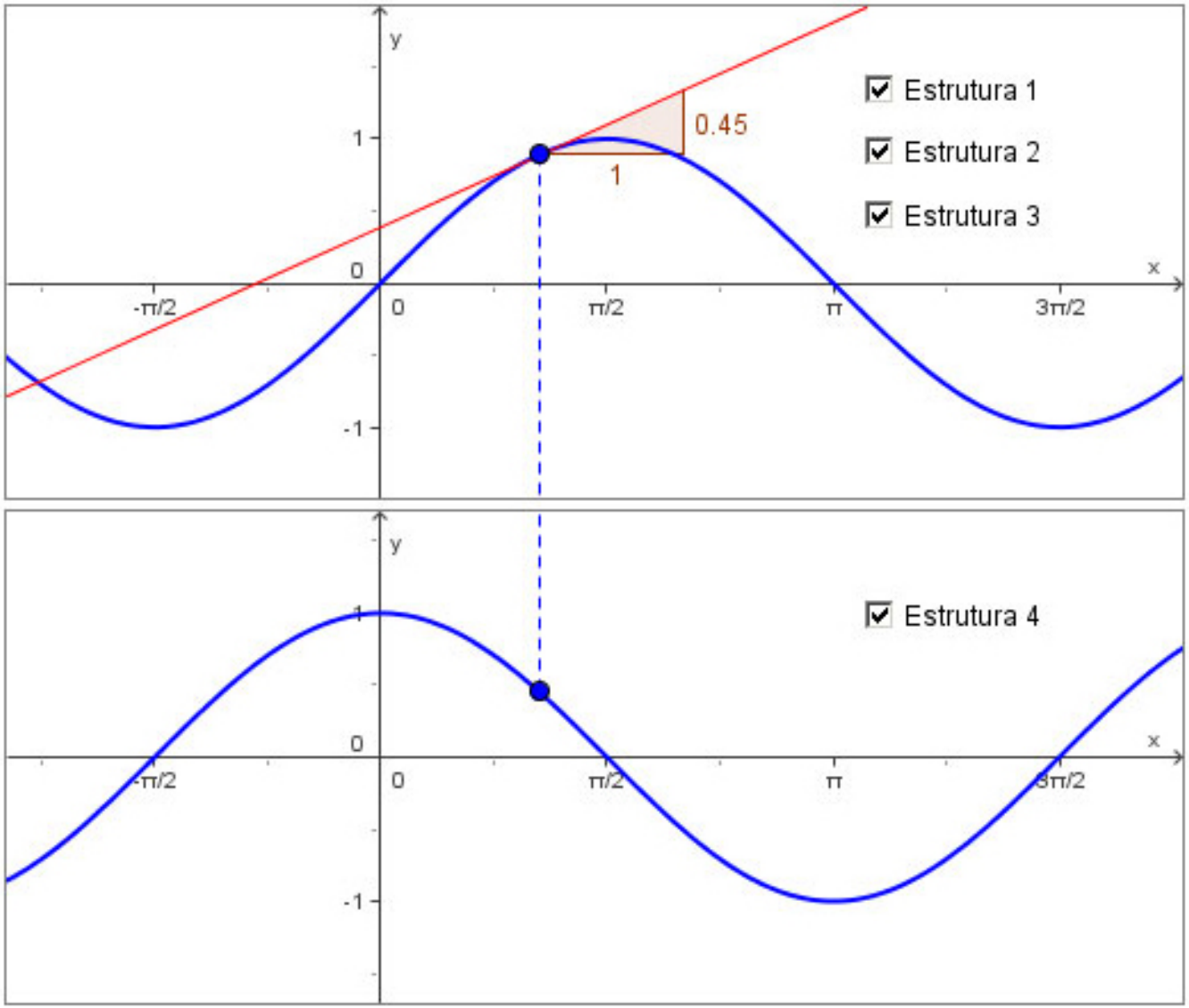
y
x
1
0
-1
-π/2
0
π/2
π
3π/2
0.45
1
Estrutura 1
Estrutura 2
Estrutura 3
Estrutura 4

Funções crescentes e decrescentes

Definição

Dizemos que uma função $f\colon D \to C$ é crescente em um subconjunto S de D se

$$\forall x_1, x_2 \in S, \quad x_1 < x_2 \quad \Rightarrow \quad f(x_1) < f(x_2).$$

Funções crescentes e decrescentes

Definição

Dizemos que uma função $f\colon D \to C$ é crescente em um subconjunto S de D se

$$\forall x_1, x_2 \in S, \quad x_1 < x_2 \quad \Rightarrow \quad f(x_1) < f(x_2).$$

Funções crescentes e decrescentes

Definição

Dizemos que uma função $f\colon D \to C$ é crescente em um subconjunto S de D se

$$\forall x_1, x_2 \in S, \quad x_1 < x_2 \quad \Rightarrow \quad f(x_1) < f(x_2).$$

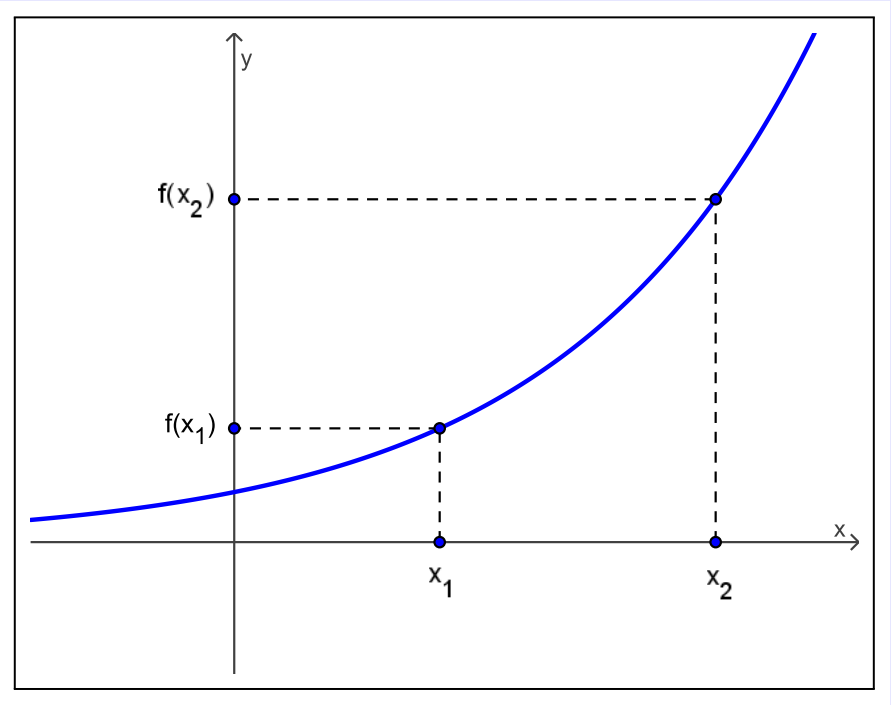

Funções crescentes e decrescentes

Definição

Dizemos que uma função $f\colon D \to C$ é decrescente em um subconjunto S de D se

$$\forall x_1, x_2 \in S, \quad x_1 < x_2 \quad \Rightarrow \quad f(x_1) > f(x_2).$$

Funções crescentes e decrescentes

Definição

Dizemos que uma função $f\colon D \to C$ é decrescente em um subconjunto S de D se

$$\forall x_1, x_2 \in S, \quad x_1 < x_2 \quad \Rightarrow \quad f(x_1) > f(x_2).$$

Funções crescentes e decrescentes

Definição

Dizemos que uma função $f\colon D \to C$ é decrescente em um subconjunto S de D se

$$\forall x_1, x_2 \in S, \quad x_1 < x_2 \quad \Rightarrow \quad f(x_1) > f(x_2).$$

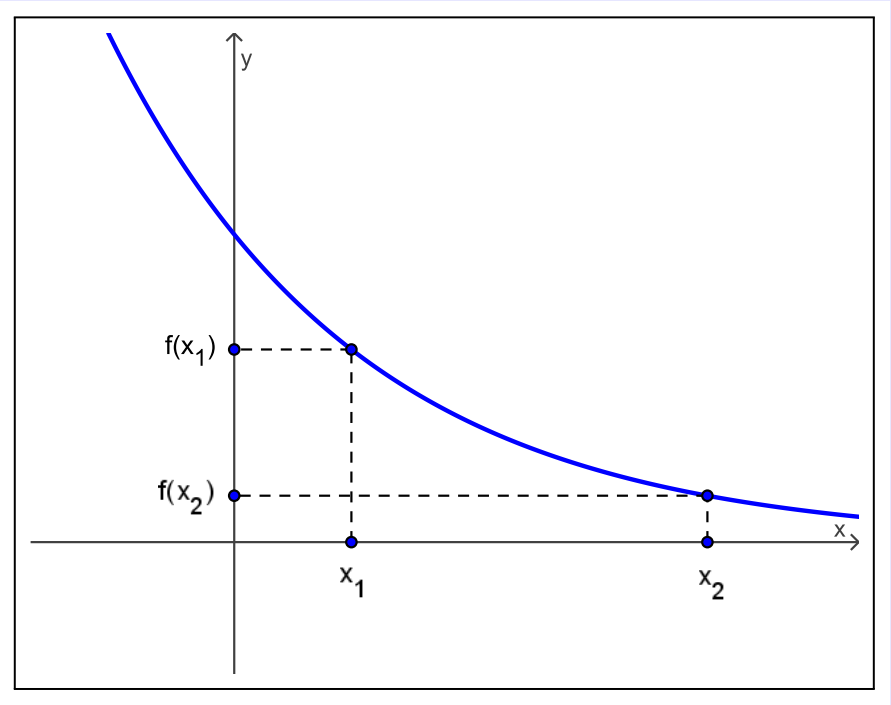

Crescimento e decrescimento em intervalos

Teorema

Seja I um intervalo contido no domínio de uma função f. Suponha que f é diferenciável em I.

(1) Se $f'(x) > 0$ para todo $x \in I$, então f é uma função crescente no intervalo I.

(2) Se $f'(x) < 0$ para todo $x \in I$, então f é uma função decrescente no intervalo I.

Crescimento e decrescimento em intervalos

Teorema

Seja I um intervalo contido no domínio de uma função f. Suponha que f é diferenciável em I.

(1) Se $f'(x) > 0$ para todo $x \in I$, então f é uma função crescente no intervalo I.

(2) Se $f'(x) < 0$ para todo $x \in I$, então f é uma função decrescente no intervalo I.

Crescimento e decrescimento em intervalos

Teorema

Seja I um intervalo contido no domínio de uma função f. Suponha que f é diferenciável em I.

(1) Se $f'(x) > 0$ para todo $x \in I$, então f é uma função crescente no intervalo I.

(2) Se $f'(x) < 0$ para todo $x \in I$, então f é uma função decrescente no intervalo I.

Crescimento e decrescimento em intervalos

Teorema

Seja I um intervalo contido no domínio de uma função f. Suponha que f é diferenciável em I.

(1) Se $f'(x) > 0$ para todo $x \in I$, então f é uma função crescente no intervalo I.

(2) Se $f'(x) < 0$ para todo $x \in I$, então f é uma função decrescente no intervalo I.

Demonstração: use o teorema do valor médio para derivadas!

Demonstração

Suponha que $f'(x) > 0$ para todo $x \in I$.

Demonstração

Suponha que $f'(x) > 0$ para todo $x \in I$. Devemos mostrar que se f é crescente em I

Demonstração

Suponha que $f'(x) > 0$ para todo $x \in I$. Devemos mostrar que se f é crescente em I, isto é, devemos mostrar que se $x_1, x_2 \in I$, com $x_1 < x_2$, então $f(x_2) > f(x_1)$.

Demonstração

Suponha que $f'(x) > 0$ para todo $x \in I$. Devemos mostrar que se f é crescente em I, isto é, devemos mostrar que se $x_1, x_2 \in I$, com $x_1 < x_2$, então $f(x_2) > f(x_1)$. Agora:

$$f(x_2) - f(x_1)$$

Demonstração

Suponha que $f'(x) > 0$ para todo $x \in I$. Devemos mostrar que se f é crescente em I, isto é, devemos mostrar que se $x_1, x_2 \in I$, com $x_1 < x_2$, então $f(x_2) > f(x_1)$. Agora:

$$f(x_2) - f(x_1) = \frac{f(x_2) - f(x_1)}{x_2 - x_1} \cdot (x_2 - x_1)$$

Demonstração

Suponha que $f'(x) > 0$ para todo $x \in I$. Devemos mostrar que se f é crescente em I, isto é, devemos mostrar que se $x_1, x_2 \in I$, com $x_1 < x_2$, então $f(x_2) > f(x_1)$. Agora:

$$f(x_2) - f(x_1) = \frac{f(x_2) - f(x_1)}{x_2 - x_1} \cdot (x_2 - x_1) \overset{(*)}{=} f'(c) \cdot (x_2 - x_1)$$

Demonstração

Suponha que $f'(x) > 0$ para todo $x \in I$. Devemos mostrar que se f é crescente em I, isto é, devemos mostrar que se $x_1, x_2 \in I$, com $x_1 < x_2$, então $f(x_2) > f(x_1)$. Agora:

$$f(x_2) - f(x_1) = \frac{f(x_2) - f(x_1)}{x_2 - x_1} \cdot (x_2 - x_1) \overset{(*)}{=} f'(c) \cdot (x_2 - x_1),$$

com $c \in (x_1, x_2)$.

Demonstração

Suponha que $f'(x) > 0$ para todo $x \in I$. Devemos mostrar que se f é crescente em I, isto é, devemos mostrar que se $x_1, x_2 \in I$, com $x_1 < x_2$, então $f(x_2) > f(x_1)$. Agora:

$$f(x_2) - f(x_1) = \frac{f(x_2) - f(x_1)}{x_2 - x_1} \cdot (x_2 - x_1) \overset{(*)}{=} f'(c) \cdot (x_2 - x_1),$$

com $c \in (x_1, x_2)$. Note que em $(*)$ usamos o teorema do valor médio.

Demonstração

Suponha que $f'(x) > 0$ para todo $x \in I$. Devemos mostrar que se f é crescente em I, isto é, devemos mostrar que se $x_1, x_2 \in I$, com $x_1 < x_2$, então $f(x_2) > f(x_1)$. Agora:

$$f(x_2) - f(x_1) = \frac{f(x_2) - f(x_1)}{x_2 - x_1} \cdot (x_2 - x_1) \overset{(*)}{=} f'(c) \cdot (x_2 - x_1),$$

com $c \in (x_1, x_2)$. Note que em $(*)$ usamos o teorema do valor médio. Como $f'(c) > 0$ e $x_2 - x_1 > 0$

Demonstração

Suponha que $f'(x) > 0$ para todo $x \in I$. Devemos mostrar que se f é crescente em I, isto é, devemos mostrar que se $x_1, x_2 \in I$, com $x_1 < x_2$, então $f(x_2) > f(x_1)$. Agora:

$$f(x_2) - f(x_1) = \frac{f(x_2) - f(x_1)}{x_2 - x_1} \cdot (x_2 - x_1) \overset{(*)}{=} f'(c) \cdot (x_2 - x_1),$$

com $c \in (x_1, x_2)$. Note que em $(*)$ usamos o teorema do valor médio. Como $f'(c) > 0$ e $x_2 - x_1 > 0$, concluímos que $f(x_2) - f(x_1) > 0$, isto é, $f(x_2) > f(x_1)$.

Demonstração

Suponha que $f'(x) > 0$ para todo $x \in I$. Devemos mostrar que se f é crescente em I, isto é, devemos mostrar que se $x_1, x_2 \in I$, com $x_1 < x_2$, então $f(x_2) > f(x_1)$. Agora:

$$f(x_2) - f(x_1) = \frac{f(x_2) - f(x_1)}{x_2 - x_1} \cdot (x_2 - x_1) \overset{(*)}{=} f'(c) \cdot (x_2 - x_1),$$

com $c \in (x_1, x_2)$. Note que em $(*)$ usamos o teorema do valor médio. Como $f'(c) > 0$ e $x_2 - x_1 > 0$, concluímos que $f(x_2) - f(x_1) > 0$, isto é, $f(x_2) > f(x_1)$.

Um argumento análogo mostra que se $f'(x) < 0$ para todo x no intervalo I, então f é decrescente em I.

Exemplo

Seja $y = f(x) = x + 4/x^2$. Calcule os intervalos onde f é crescente e os intervalos onde f é decrescente.

Exemplo

Seja $y = f(x) = x + 4/x^2$. Calcule os intervalos onde f é crescente e os intervalos onde f é decrescente.

Solução.

Exemplo

Seja $y = f(x) = x + 4/x^2$. Calcule os intervalos onde f é crescente e os intervalos onde f é decrescente.

Solução. Temos que $f'(x) =$

Exemplo

Seja $y = f(x) = x + 4/x^2$. Calcule os intervalos onde f é crescente e os intervalos onde f é decrescente.

Solução. Temos que $f'(x) = 1 - 8/x^3$

Exemplo

Seja $y = f(x) = x + 4/x^2$. Calcule os intervalos onde f é crescente e os intervalos onde f é decrescente.

Solução. Temos que $f'(x) = 1 - 8/x^3 = (x^3 - 8)/x^3$.

Exemplo

Seja $y = f(x) = x + 4/x^2$. Calcule os intervalos onde f é crescente e os intervalos onde f é decrescente.

Solução. Temos que $f'(x) = 1 - 8/x^3 = (x^3 - 8)/x^3$. Vamos estudar o sinal da derivada:

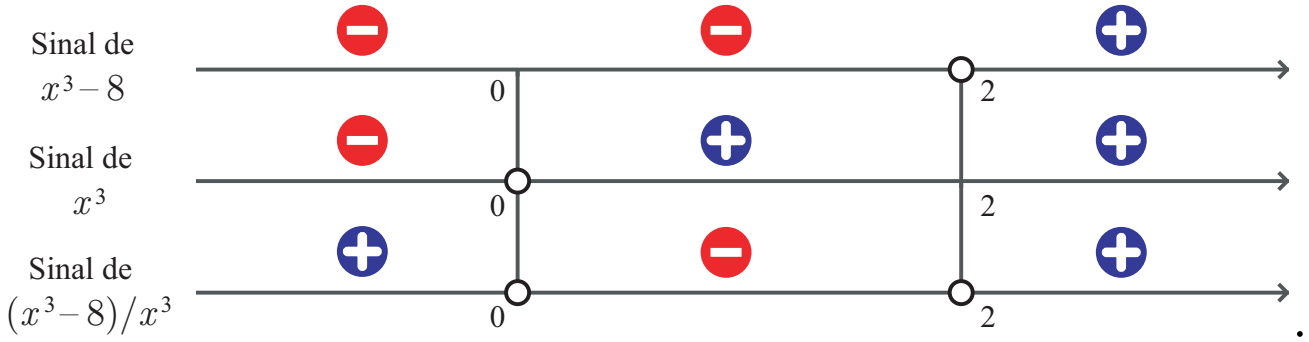

.

Exemplo

Seja $y = f(x) = x + 4/x^2$. Calcule os intervalos onde f é crescente e os intervalos onde f é decrescente.

Solução. Temos que $f'(x) = 1 - 8/x^3 = (x^3 - 8)/x^3$. Vamos estudar o sinal da derivada:

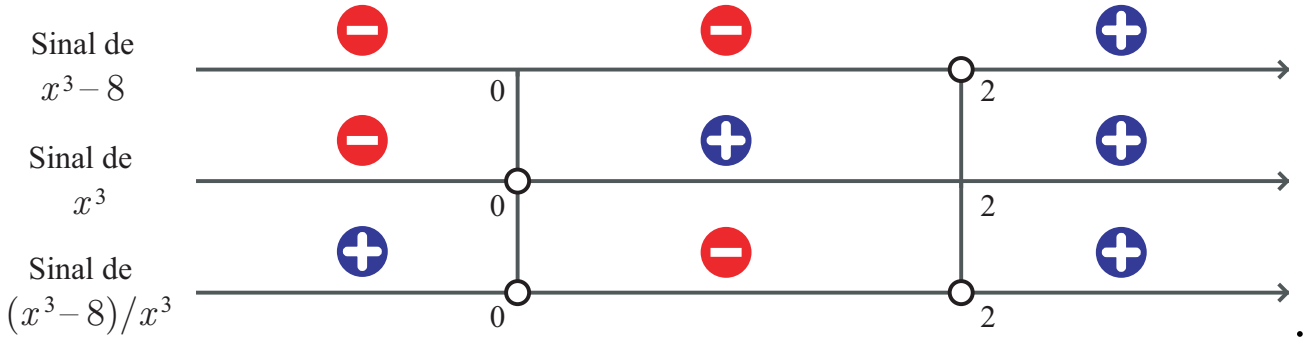

Como $f'(x) > 0$ para $x \in$

Exemplo

Seja $y = f(x) = x + 4/x^2$. Calcule os intervalos onde f é crescente e os intervalos onde f é decrescente.

Solução. Temos que $f'(x) = 1 - 8/x^3 = (x^3 - 8)/x^3$. Vamos estudar o sinal da derivada:

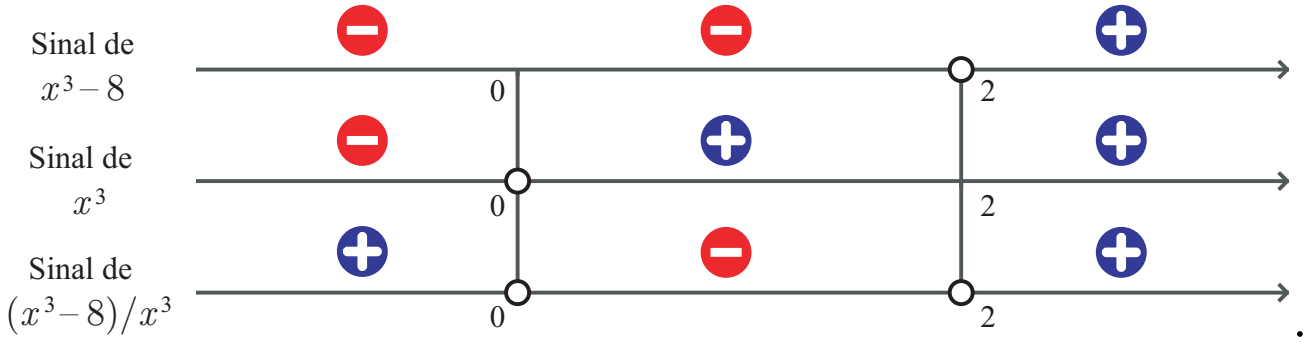

Como $f'(x) > 0$ para $x \in (-\infty, 0) \cup (2, +\infty)$

Exemplo

Seja $y = f(x) = x + 4/x^2$. Calcule os intervalos onde f é crescente e os intervalos onde f é decrescente.

Solução. Temos que $f'(x) = 1 - 8/x^3 = (x^3 - 8)/x^3$. Vamos estudar o sinal da derivada:

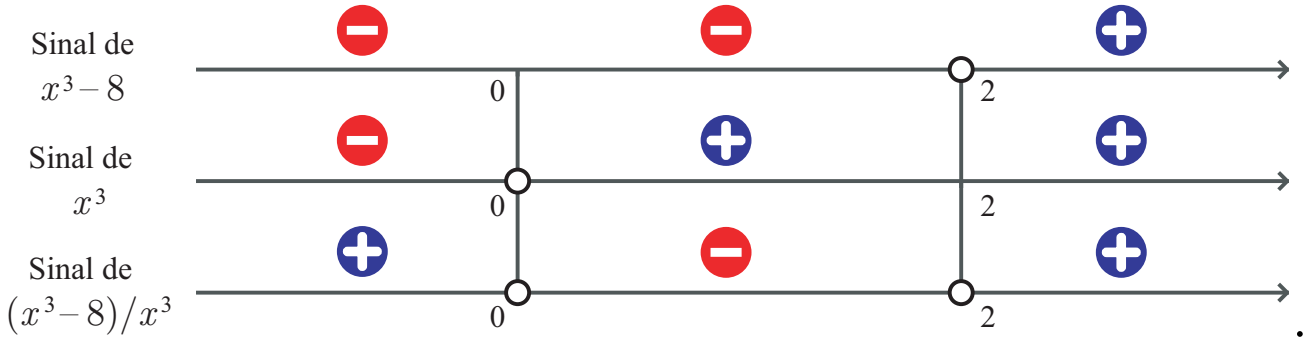

Como $f'(x) > 0$ para $x \in (-\infty, 0) \cup (2, +\infty)$, vemos que f é crescente em $(-\infty, 0)$ e f é crescente em $(2, +\infty)$.

Exemplo

Seja $y = f(x) = x + 4/x^2$. Calcule os intervalos onde f é crescente e os intervalos onde f é decrescente.

Solução. Temos que $f'(x) = 1 - 8/x^3 = (x^3 - 8)/x^3$. Vamos estudar o sinal da derivada:

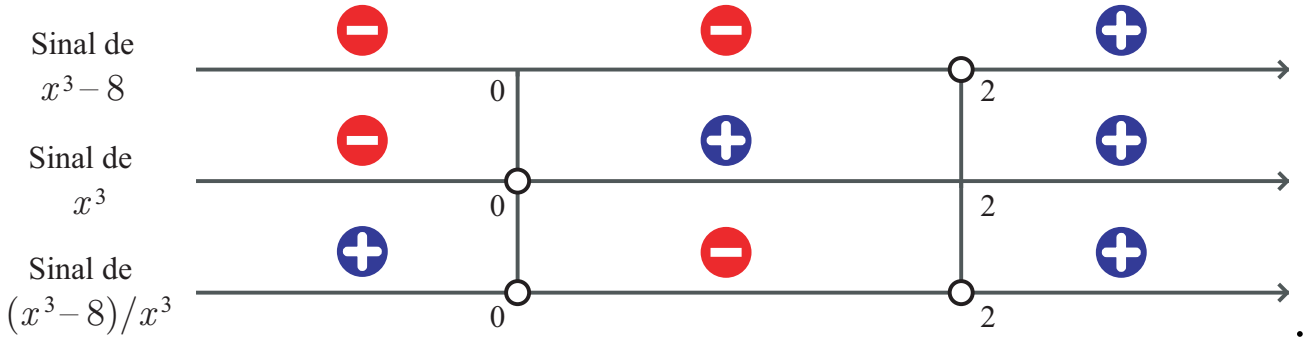

Como $f'(x) > 0$ para $x \in (-\infty, 0) \cup (2, +\infty)$, vemos que f é crescente em $(-\infty, 0)$ e f é crescente em $(2, +\infty)$. Como $f'(x) < 0$ para $x \in (0, 2)$, vemos que f é decrescente em $(0, 2)$.

Cuidado!

A função $y = f(x) = x + 4/x^2$ não é crescente em $(-\infty, 0) \cup (2, +\infty)$!

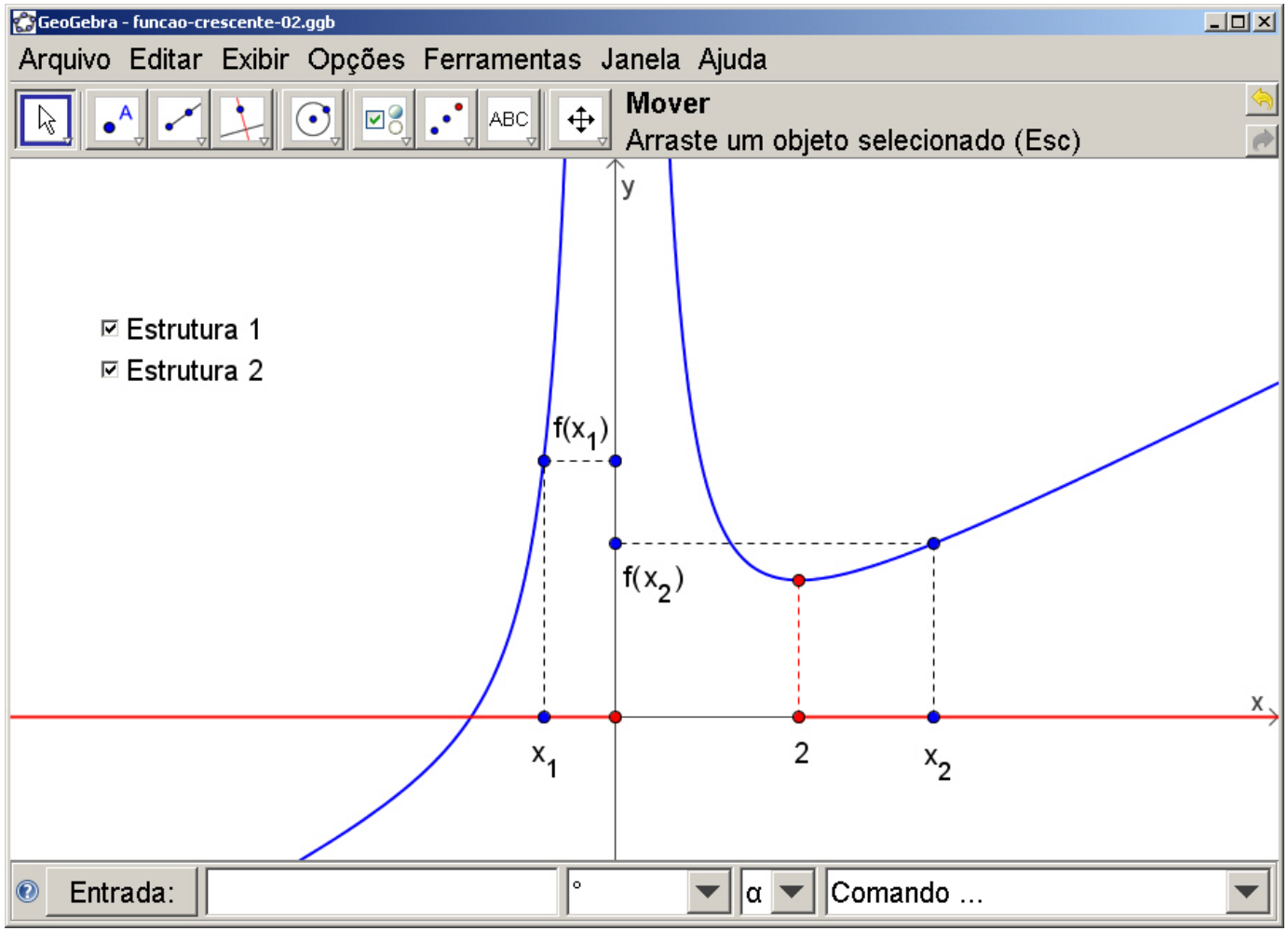

Exemplo

Seja f uma função tal que $f(0) = 0$ e $f'(x) = x^2/(1 + x^2)$ para todo $x \in \mathbb{R}$. Mostre que $0 < f(x) < x$ para todo $x > 0$.

Exemplo

Seja f uma função tal que $f(0) = 0$ e $f'(x) = x^2/(1 + x^2)$ para todo $x \in \mathbb{R}$. Mostre que $0 < f(x) < x$ para todo $x > 0$.

Solução.

Exemplo

Seja f uma função tal que $f(0) = 0$ e $f'(x) = x^2/(1 + x^2)$ para todo $x \in \mathbb{R}$. Mostre que $0 < f(x) < x$ para todo $x > 0$.

Solução. Primeiro, defina a função auxiliar $g(x) = x - f(x)$.

Exemplo

Seja f uma função tal que $f(0) = 0$ e $f'(x) = x^2/(1 + x^2)$ para todo $x \in \mathbb{R}$. Mostre que $0 < f(x) < x$ para todo $x > 0$.

Solução. Primeiro, defina a função auxiliar $g(x) = x - f(x)$. Agora, note que

$$g'(x) =$$

Exemplo

Seja f uma função tal que $f(0) = 0$ e $f'(x) = x^2/(1 + x^2)$ para todo $x \in \mathbb{R}$. Mostre que $0 < f(x) < x$ para todo $x > 0$.

Solução. Primeiro, defina a função auxiliar $g(x) = x - f(x)$. Agora, note que

$$g'(x) = 1 - f'(x)$$

Exemplo

Seja f uma função tal que $f(0) = 0$ e $f'(x) = x^2/(1 + x^2)$ para todo $x \in \mathbb{R}$. Mostre que $0 < f(x) < x$ para todo $x > 0$.

Solução. Primeiro, defina a função auxiliar $g(x) = x - f(x)$. Agora, note que

$$g'(x) = 1 - f'(x) = 1 - \frac{x^2}{1 + x^2}$$

Exemplo

Seja f uma função tal que $f(0) = 0$ e $f'(x) = x^2/(1 + x^2)$ para todo $x \in \mathbb{R}$. Mostre que $0 < f(x) < x$ para todo $x > 0$.

Solução. Primeiro, defina a função auxiliar $g(x) = x - f(x)$. Agora, note que

$$g'(x) = 1 - f'(x) = 1 - \frac{x^2}{1 + x^2} = \frac{1}{1 + x^2}$$

Exemplo

Seja f uma função tal que $f(0) = 0$ e $f'(x) = x^2/(1 + x^2)$ para todo $x \in \mathbb{R}$. Mostre que $0 < f(x) < x$ para todo $x > 0$.

Solução. Primeiro, defina a função auxiliar $g(x) = x - f(x)$. Agora, note que

$$g'(x) = 1 - f'(x) = 1 - \frac{x^2}{1 + x^2} = \frac{1}{1 + x^2} > 0 \quad \text{para todo } x \in \mathbb{R}.$$

Exemplo

Seja f uma função tal que $f(0) = 0$ e $f'(x) = x^2/(1 + x^2)$ para todo $x \in \mathbb{R}$. Mostre que $0 < f(x) < x$ para todo $x > 0$.

Solução. Primeiro, defina a função auxiliar $g(x) = x - f(x)$. Agora, note que

$$g'(x) = 1 - f'(x) = 1 - \frac{x^2}{1 + x^2} = \frac{1}{1 + x^2} > 0 \quad \text{para todo } x \in \mathbb{R}.$$

Assim, g é crescente em $[0, +\infty)$.

Exemplo

Seja f uma função tal que $f(0) = 0$ e $f'(x) = x^2/(1 + x^2)$ para todo $x \in \mathbb{R}$. Mostre que $0 < f(x) < x$ para todo $x > 0$.

Solução. Primeiro, defina a função auxiliar $g(x) = x - f(x)$. Agora, note que

$$g'(x) = 1 - f'(x) = 1 - \frac{x^2}{1 + x^2} = \frac{1}{1 + x^2} > 0 \quad \text{para todo } x \in \mathbb{R}.$$

Assim, g é crescente em $[0, +\infty)$. Como $g(0) = 0 - f(0) = 0 - 0 = 0$, segue-se que

Exemplo

Seja f uma função tal que $f(0) = 0$ e $f'(x) = x^2/(1 + x^2)$ para todo $x \in \mathbb{R}$. Mostre que $0 < f(x) < x$ para todo $x > 0$.

Solução. Primeiro, defina a função auxiliar $g(x) = x - f(x)$. Agora, note que

$$g'(x) = 1 - f'(x) = 1 - \frac{x^2}{1 + x^2} = \frac{1}{1 + x^2} > 0 \quad \text{para todo } x \in \mathbb{R}.$$

Assim, g é crescente em $[0, +\infty)$. Como $g(0) = 0 - f(0) = 0 - 0 = 0$, segue-se que

$$0 < x$$

Exemplo

Seja f uma função tal que $f(0) = 0$ e $f'(x) = x^2/(1 + x^2)$ para todo $x \in \mathbb{R}$. Mostre que $0 < f(x) < x$ para todo $x > 0$.

Solução. Primeiro, defina a função auxiliar $g(x) = x - f(x)$. Agora, note que

$$g'(x) = 1 - f'(x) = 1 - \frac{x^2}{1 + x^2} = \frac{1}{1 + x^2} > 0 \quad \text{para todo } x \in \mathbb{R}.$$

Assim, g é crescente em $[0, +\infty)$. Como $g(0) = 0 - f(0) = 0 - 0 = 0$, segue-se que

$$0 < x \quad \Rightarrow \quad g(0) < g(x)$$

Exemplo

Seja f uma função tal que $f(0) = 0$ e $f'(x) = x^2/(1 + x^2)$ para todo $x \in \mathbb{R}$. Mostre que $0 < f(x) < x$ para todo $x > 0$.

Solução. Primeiro, defina a função auxiliar $g(x) = x - f(x)$. Agora, note que

$$g'(x) = 1 - f'(x) = 1 - \frac{x^2}{1 + x^2} = \frac{1}{1 + x^2} > 0 \quad \text{para todo } x \in \mathbb{R}.$$

Assim, g é crescente em $[0, +\infty)$. Como $g(0) = 0 - f(0) = 0 - 0 = 0$, segue-se que

$$0 < x \quad \Rightarrow \quad g(0) < g(x) \quad \Rightarrow \quad 0 < x - f(x)$$

Exemplo

Seja f uma função tal que $f(0) = 0$ e $f'(x) = x^2/(1 + x^2)$ para todo $x \in \mathbb{R}$. Mostre que $0 < f(x) < x$ para todo $x > 0$.

Solução. Primeiro, defina a função auxiliar $g(x) = x - f(x)$. Agora, note que

$$g'(x) = 1 - f'(x) = 1 - \frac{x^2}{1 + x^2} = \frac{1}{1 + x^2} > 0 \quad \text{para todo } x \in \mathbb{R}.$$

Assim, g é crescente em $[0, +\infty)$. Como $g(0) = 0 - f(0) = 0 - 0 = 0$, segue-se que

$$0 < x \quad \Rightarrow \quad g(0) < g(x) \quad \Rightarrow \quad 0 < x - f(x) \quad \Rightarrow \quad f(x) < x.$$

Exemplo

Seja f uma função tal que $f(0) = 0$ e $f'(x) = x^2/(1 + x^2)$ para todo $x \in \mathbb{R}$. Mostre que $0 < f(x) < x$ para todo $x > 0$.

Solução. Primeiro, defina a função auxiliar $g(x) = x - f(x)$. Agora, note que

$$g'(x) = 1 - f'(x) = 1 - \frac{x^2}{1 + x^2} = \frac{1}{1 + x^2} > 0 \quad \text{para todo } x \in \mathbb{R}.$$

Assim, g é crescente em $[0, +\infty)$. Como $g(0) = 0 - f(0) = 0 - 0 = 0$, segue-se que

$$0 < x \quad \Rightarrow \quad g(0) < g(x) \quad \Rightarrow \quad 0 < x - f(x) \quad \Rightarrow \quad f(x) < x.$$

Resta mostrar que $0 < f(x)$ para todo $x > 0$.

Exemplo

Seja f uma função tal que $f(0) = 0$ e $f'(x) = x^2/(1 + x^2)$ para todo $x \in \mathbb{R}$. Mostre que $0 < f(x) < x$ para todo $x > 0$.

Solução. Primeiro, defina a função auxiliar $g(x) = x - f(x)$. Agora, note que

$$g'(x) = 1 - f'(x) = 1 - \frac{x^2}{1 + x^2} = \frac{1}{1 + x^2} > 0 \quad \text{para todo } x \in \mathbb{R}.$$

Assim, g é crescente em $[0, +\infty)$. Como $g(0) = 0 - f(0) = 0 - 0 = 0$, segue-se que

$$0 < x \quad \Rightarrow \quad g(0) < g(x) \quad \Rightarrow \quad 0 < x - f(x) \quad \Rightarrow \quad f(x) < x.$$

Resta mostrar que $0 < f(x)$ para todo $x > 0$. Como $f'(x) = x^2/(1 + x^2) > 0$ para $x > 0$, segue-se que f é crescente em $[0, +\infty)$.

Exemplo

Seja f uma função tal que $f(0) = 0$ e $f'(x) = x^2/(1 + x^2)$ para todo $x \in \mathbb{R}$. Mostre que $0 < f(x) < x$ para todo $x > 0$.

Solução. Primeiro, defina a função auxiliar $g(x) = x - f(x)$. Agora, note que

$$g'(x) = 1 - f'(x) = 1 - \frac{x^2}{1 + x^2} = \frac{1}{1 + x^2} > 0 \quad \text{para todo } x \in \mathbb{R}.$$

Assim, g é crescente em $[0, +\infty)$. Como $g(0) = 0 - f(0) = 0 - 0 = 0$, segue-se que

$$0 < x \quad \Rightarrow \quad g(0) < g(x) \quad \Rightarrow \quad 0 < x - f(x) \quad \Rightarrow \quad f(x) < x.$$

Resta mostrar que $0 < f(x)$ para todo $x > 0$. Como $f'(x) = x^2/(1 + x^2) > 0$ para $x > 0$, segue-se que f é crescente em $[0, +\infty)$. Logo, como $f(0) = 0$, segue-se que

Exemplo

Seja f uma função tal que $f(0) = 0$ e $f'(x) = x^2/(1 + x^2)$ para todo $x \in \mathbb{R}$. Mostre que $0 < f(x) < x$ para todo $x > 0$.

Solução. Primeiro, defina a função auxiliar $g(x) = x - f(x)$. Agora, note que

$$g'(x) = 1 - f'(x) = 1 - \frac{x^2}{1 + x^2} = \frac{1}{1 + x^2} > 0 \quad \text{para todo } x \in \mathbb{R}.$$

Assim, g é crescente em $[0, +\infty)$. Como $g(0) = 0 - f(0) = 0 - 0 = 0$, segue-se que

$$0 < x \quad \Rightarrow \quad g(0) < g(x) \quad \Rightarrow \quad 0 < x - f(x) \quad \Rightarrow \quad f(x) < x.$$

Resta mostrar que $0 < f(x)$ para todo $x > 0$. Como $f'(x) = x^2/(1 + x^2) > 0$ para $x > 0$, segue-se que f é crescente em $[0, +\infty)$. Logo, como $f(0) = 0$, segue-se que

$$0 < x$$

Exemplo

Seja f uma função tal que $f(0) = 0$ e $f'(x) = x^2/(1 + x^2)$ para todo $x \in \mathbb{R}$. Mostre que $0 < f(x) < x$ para todo $x > 0$.

Solução. Primeiro, defina a função auxiliar $g(x) = x - f(x)$. Agora, note que

$$g'(x) = 1 - f'(x) = 1 - \frac{x^2}{1 + x^2} = \frac{1}{1 + x^2} > 0 \quad \text{para todo } x \in \mathbb{R}.$$

Assim, g é crescente em $[0, +\infty)$. Como $g(0) = 0 - f(0) = 0 - 0 = 0$, segue-se que

$$0 < x \quad \Rightarrow \quad g(0) < g(x) \quad \Rightarrow \quad 0 < x - f(x) \quad \Rightarrow \quad f(x) < x.$$

Resta mostrar que $0 < f(x)$ para todo $x > 0$. Como $f'(x) = x^2/(1 + x^2) > 0$ para $x > 0$, segue-se que f é crescente em $[0, +\infty)$. Logo, como $f(0) = 0$, segue-se que

$$0 < x \quad \Rightarrow \quad f(0) < f(x)$$

Exemplo

Seja f uma função tal que $f(0) = 0$ e $f'(x) = x^2/(1 + x^2)$ para todo $x \in \mathbb{R}$. Mostre que $0 < f(x) < x$ para todo $x > 0$.

Solução. Primeiro, defina a função auxiliar $g(x) = x - f(x)$. Agora, note que

$$g'(x) = 1 - f'(x) = 1 - \frac{x^2}{1 + x^2} = \frac{1}{1 + x^2} > 0 \quad \text{para todo } x \in \mathbb{R}.$$

Assim, g é crescente em $[0, +\infty)$. Como $g(0) = 0 - f(0) = 0 - 0 = 0$, segue-se que

$$0 < x \quad \Rightarrow \quad g(0) < g(x) \quad \Rightarrow \quad 0 < x - f(x) \quad \Rightarrow \quad f(x) < x.$$

Resta mostrar que $0 < f(x)$ para todo $x > 0$. Como $f'(x) = x^2/(1 + x^2) > 0$ para $x > 0$, segue-se que f é crescente em $[0, +\infty)$. Logo, como $f(0) = 0$, segue-se que

$$0 < x \quad \Rightarrow \quad f(0) < f(x) \quad \Rightarrow \quad 0 < f(x).$$